Lernkontrolle: Zeit		Name:
Klassenschnitt:	Note:	Unterschrift

Ergänze die fehlenden Angaben: Zeiger, Uhrzeit vormittags / nachmittags






vor Mittag	1	1													
nach Mittag			2	0									1	7	

Verwandle:

in h (Stunden) und min (Minuten)

420 min	=	
315min	=	

660min	=	
120min	=	

in min (Minuten) und s (Sekunden)

69 s	=	
500 s	=	

432 s	=	
100 s	=	

Und umgekehrt:

3h 39min	=	
1h 50min	=	

7h 31min	=	
2h 5min	=	

5min 12s	=	
3min 20s	=	

10min 9s	=	
1min 40s	=	

Berechne die fehlenden Angaben in diesem Fahrplan



Abfahrt	Fahrzeit	Ankunft
10.40	26 min	
11.53	27 min	
	38 min	14.40
	42 min	14.53
	57 min	16.27
08.12	14 min	
09.27	19 min	

Abfahrt	Fahrzeit	Ankunft
22.03		23.00
23.20		24.00
00.00		00.33
	43 min	04.20
	14 min	06.12
19.57	8 min	
21.15		22.10

Rechne zusammen:

4h 12min	+	3h 53min	=	
6h 30min	+	31 min	=	
1h 59min	+	2h 41min	=	

9min 3s	+	58s	=	
1min 49s	+	8min 51s	=	
4min 1s	+	2min 18s	=	

Jedes folgende Zifferblatt soll 2 Stunden 15 Minuten später anzeigen als das vorangehende.
Zeichne die Zeiger ein.



Und noch ein paar Sätzli-Aufgaben:

Von 6.35 bis 7.20 Uhr, von 10.15 bis 12.05 Uhr und von 18.10 bis 18.55 Uhr arbeitet die Mutter in der Küche.

R:_____

AS:_____

Heute arbeitet Felix von 8.55 bis 12.15 Uhr und von 13.20 bis 16.25 Uhr.

R:_____

AS:_____

Beantworte die Fragen:

Wieviele Stunden hat ein Tag?	
Wieviele Tage hat das Jahr 2003 gehabt?	
Wieviele Minuten hat 1 Stunde?	
Wieviele Tage hat der Mai?	
Wieviele Tage hat dieses Jahr (Schaltjahr) der Februar gehabt?	



Lernkontrolle: Zeit		Name:
Klassenschnitt:	Note:	Unterschrift

Ergänze die fehlenden Angaben: Zeiger, Uhrzeit vormittags / nachmittags



vor Mittag				
nach Mittag				



1	7		



1	1		
		2	0



Verwandle:

in h (Stunden) und min (Minuten)

120 min	=	
315min	=	

660min	=	
420min	=	

in min (Minuten) und s (Sekunden)

69 s	=	
100 s	=	

432 s	=	
500 s	=	

Und umgekehrt:

7h 31min	=	
1h 50min	=	

3h 39min	=	
2h 5min	=	

3min 20s	=	
5min 12s	=	

10min 9s	=	
1min 40s	=	

Berechne die fehlenden Angaben in diesem Fahrplan

Abfahrt	Fahrzeit	Ankunft
08.12	14 min	
09.27	19 min	
10.40	26 min	
11.53	27 min	
	38 min	14.40
	42 min	14.53
	57 min	16.27

Abfahrt	Fahrzeit	Ankunft
19.57	8 min	
21.15		22.10
22.03		23.00
23.20		24.00
00.00		00.33
	43 min	04.20
	14 min	06.12

Rechne zusammen:

6h 30min	+	31 min	=	
1h 59min	+	2h 41min	=	
4h 12min	+	3h 53min	=	

1min 49s	+	8min 51s	=	
4min 1s	+	2min 18s	=	
9min 3s	+	58s	=	

Jedes folgende Zifferblatt soll 2 Stunden 15 Minuten später anzeigen als das vorangehende.
Zeichne die Zeiger ein.



Und noch ein paar Sätzli-Aufgaben:

Von 6.35 bis 7.20 Uhr, von 10.15 bis 12.05 Uhr und von 18.10 bis 18.55 Uhr arbeitet die Mutter in der Küche.

R:_____

AS:_____

Heute arbeitet Felix von 8.55 bis 12.15 Uhr und von 13.20 bis 16.25 Uhr.

R:_____

AS:_____

Beantworte die Fragen:

Wieviele Tage hat das Jahr 2003 gehabt?	
Wieviele Stunden hat ein Tag?	
Wieviele Tage hat der Mai?	
Wieviele Minuten hat 1 Stunde?	
Wieviele Tage hat dieses Jahr (Schaltjahr) der Februar gehabt?	